小1

あわせていくつ ふえるといくつ

2

なまえ　　がつ　　にち

あわせて いくつですか

1

4だい

1だい

しき □ ＋ □ ＝ □　　こたえ □ だい

2

3こ

2こ



しき □ ＋ □ ＝ □　　こたえ □ こ

ふえると いくつですか

1

2ひきありました。



4ひきふえました。



しき □ ＋ □ ＝ □　　こたえ □ ひき

1

5ほんありました。

2ほんふえました。

しき □ ＋ □ ＝ □　　こたえ □ ほん

こどもプリント
https://kidsdor.com/

小1 あわせていくつ ふえるといくつ 2 こたえ

あわせて いくつですか

4だい　　1だい

1

しき 4 ＋ 1 ＝ 5　　こたえ 5 だい

3こ　　2こ

2

しき 3 ＋ 2 ＝ 5　　こたえ 5 こ

ふえると いくつですか

2ひきありました。　　4ひきふえました。

1



しき 2 ＋ 4 ＝ 6　　こたえ 6 ひき

5ほんありました。　　2ほんふえました。

1

しき 5 ＋ 2 ＝ 7　　こたえ 7 ほん